ESTADO DO CEARÁ
SECRETARIA DE SEGURANÇA PÚBLICA E DEFESA SOCIAL
CORPO DE BOMBEIROS MILITAR
COLÉGIO MILITAR ESCRITORA RACHEL DE QUEIROZ

PROVA DE PORTUGUÊS 1º ANO FUNDAMENTAL

16 escores e não mais 15

~~15 escores [----]~~

1ª QUESTÃO

COMPLETE OS ESPAÇOS COM A PRIMEIRA SÍLABA DOS NOMES DAS FIGURAS A BAIXO.

RÁ DIO

SA BONETE

RE LÓGIO

SO FÁ

RO DO

SA COLA

RA TO

SI NO

RÉ GUA

SA PATO

RO DA

SO PA


RO BÔ

SU CO

RA QUETE

SA PO

2ª QUESTÃO 08 escores [ ]

SEPARE EM CADA QUADRO AS LETRAS E AS SÍLABAS DAS PALAVRAS



3ª QUESTÃO 18 escores [ ]

A) LIGUE O NOME CORRETO A CADA FIGURA CORRESPONDENTE. (10 esc)

B) DE ACORDO COM O ALFABETO, COMPLETE AS LACUNAS A SEGUIR: (8 esc)

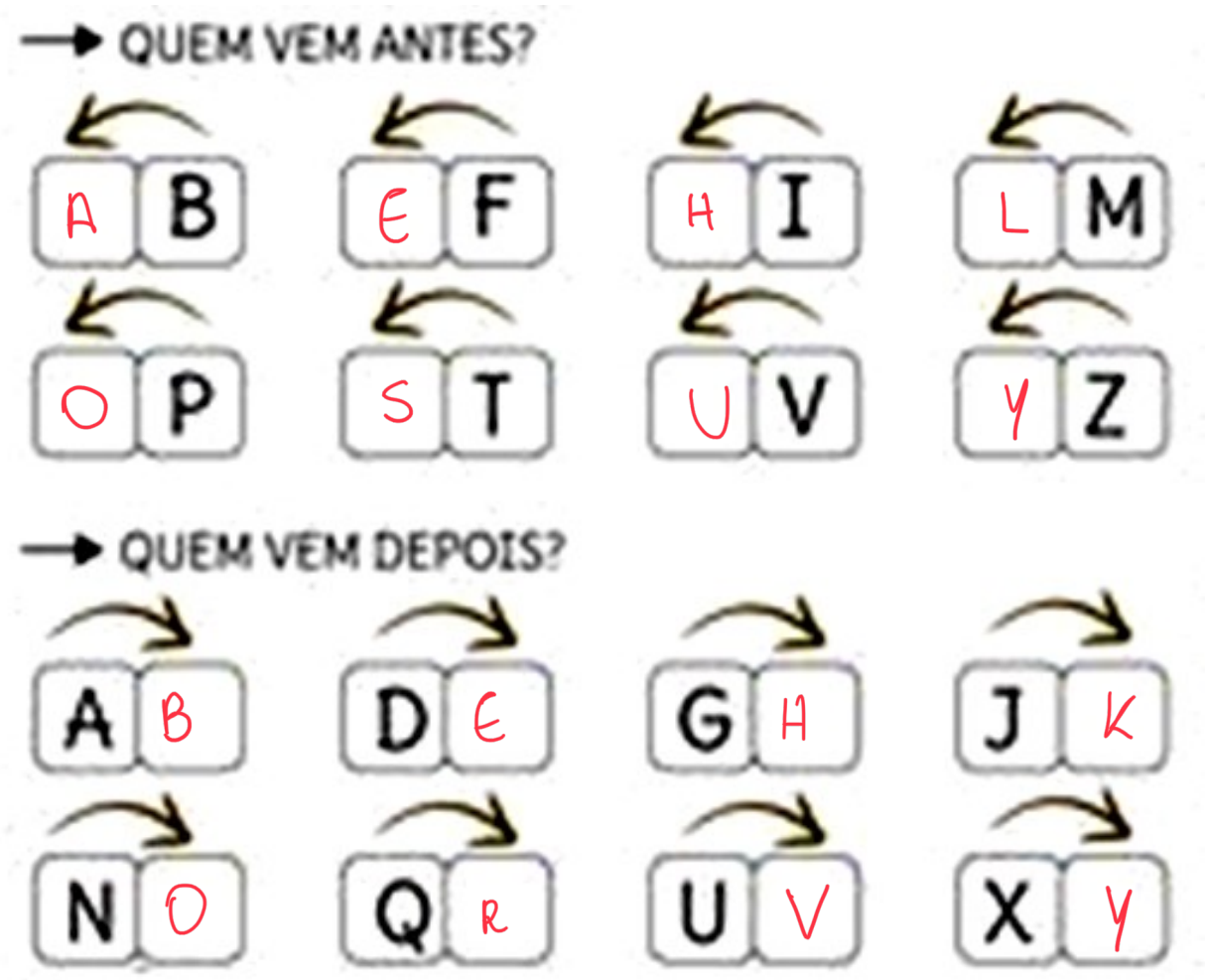

4ª QUESTÃO 18 escores [ ]

COMPLETE COM **CHA**, **CHE**, **CHI**, **CHO, CHU**, NOS QUADROS A SEGUIR E DEPOIS TRANSCREVA A PALAVRA COMPLETA. (18 esc)

5ª QUESTÃO 29 escores [ ]

Forme palavras de acordo com a numeração:

1 NA	2 BLI	3 ME	4 RO	5 NE
6 VE	7 O	8 CA	9 VEN	10 VEM
11 NI	12 MO	13 NO	14 TAL	15 LA
16 TA	17 PA	18 VI	19 NHO	20 NU

13+3
NOME

1+16
NATA

1+18+7
NAVIO

1+14
NATAL

5+6
NEVE

5+2+1
NEBLINA

13+6+1
NOVENA

20+10
NUVEM

11+19
NINHO

1+12+4
NAMORO

13+9+16
NOVENTA

20+8
NUCA

6ª QUESTÃO 22 escores [ ]

A) TROQUE AS LETRAS INICIAIS DAS PALAVRAS PELA LETRA **J** E REESCREVA. **(16 esc)**

BÓIA: JÓIA
FACA: JACA
FILÓ: JILÓ
GATO: JATO
CANTAR: JANTAR
PANELA: JANELA
FOCA: JOCA
FOGO: JOGO
BARRO: JARRO
COELHO: JOELHO
LUCA: JUCA
BUDA: JUDA
TECA: JECA
CUBA: JUCA
YASMIM: JASMIN
CUSTA: JUSTA

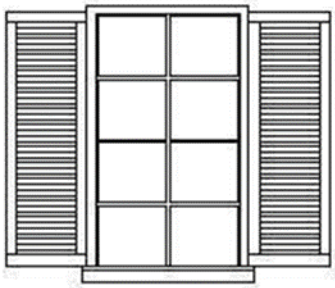

B) ESCREVA OS NOMES DAS FIGURINHAS. (6 esc)

SINO

SOFÁ

SOPA

OBS.: SERÃO ACEITAS RESPOSTAS COERENTES QUE NÃO SE ENCONTREM NO GABARITO NOS ITENS QUE POSSUAM IMAGENS COM MAIS DE UMA INTERPRETAÇÃO.

7ª QUESTÃO 26 escores [ ]

FORME PALAVRAS (12 esc)

so — pa SOPA
so — fá SOFÁ
so — no SONO

sa — la SALA
sa — po SAPO
sa — pé SAPÉ

MONTE A PALAVRA EM CADA LINHA (12 esc)

sa le ta SALETA
si ne ta SINETA
se ma na SEMANA
sa í da SAÍDA

VEJA AS IMAGENS E COMPLETE AS FRASES (2 esc)

O SAPO pula.

O SINO bate.

8ª QUESTÃO 24 escores [ ]

ESCREVA EM ORDEM ALFABÉTICA OS NOMES DAS FRUTAS DA RELAÇÃO A SEGUIR.

SO SE CONSIDERA A PRIMEIRA LETRA, PODENDO TER VARIAÇÕES NA SEGUNDA LETRA

JACA	AMORA
MAMÃO	DAMASCO
CAJU	UVA
LARANJA	FIGO
ACEROLA	CEREJA
GOIABA	CAQUI
KIWI	BANANA
ROMÃ	JABUTICABA
ABACAXI	LIMÃO
GRAVIOLA	MORANGO
PÊSSEGO	FRAMBOESA
MELANCIA	TANGERINA

1 ABACAXI	13 JABUTICABA
2 ACEROLA	14 JACA
3 A MORA	15 KIWI
4 BANANA	16 LARANJA
5 CAJU	17 LIMÃO
6 CAQUI	18 MAMÃO
7 CEREJA	19 MELANCIA
8 DAMASCO	20 MORANGO
9 FIGO	21 PESSÊGO
10 FRAMBOESA	22 ROMÃ
11 GOIABA	23 TANGERINA
12 GRAVIOLA	24 UVA

9ª QUESTÃO 07 escores [ ]

COMPLETE AS PALAVRAS CRUZADAS COM OS NOMES DE CADA BRINQUEDO.



10ª QUESTÃO 21 escores [ ]

PREENCHA OS ESPAÇOS COM AS LETRAS QUE ESTÃO FALTANDO PARA COMPLETAR OS NOMES DAS FIGURINHAS.

	E	S	T	R	E	L	A
	R	E	L	Ó	G	I	O
	F	O	C	A			
	L	U	A				
	B	O	L	A			
	S	O	L				
	D	A	D	O			
	B	O	L	O			
	S	O	R	V	E	T	E

ESTADO DO CEARÁ
SECRETARIA DE SEGURANÇA PÚBLICA E DEFESA SOCIAL
CORPO DE BOMBEIROS MILITAR
COLÉGIO MILITAR ESCRITORA RACHEL DE QUEIROZ

PROVA DE MATEMÁTICA 1º ANO FUNDAMENTAL

11ª QUESTÃO 19 escores [ ]

A) FAÇA A SOMA DOS NÚMEROS E PINTE OS BALÕES CORRESPONDENTES AO RESULTADO. (6 esc)

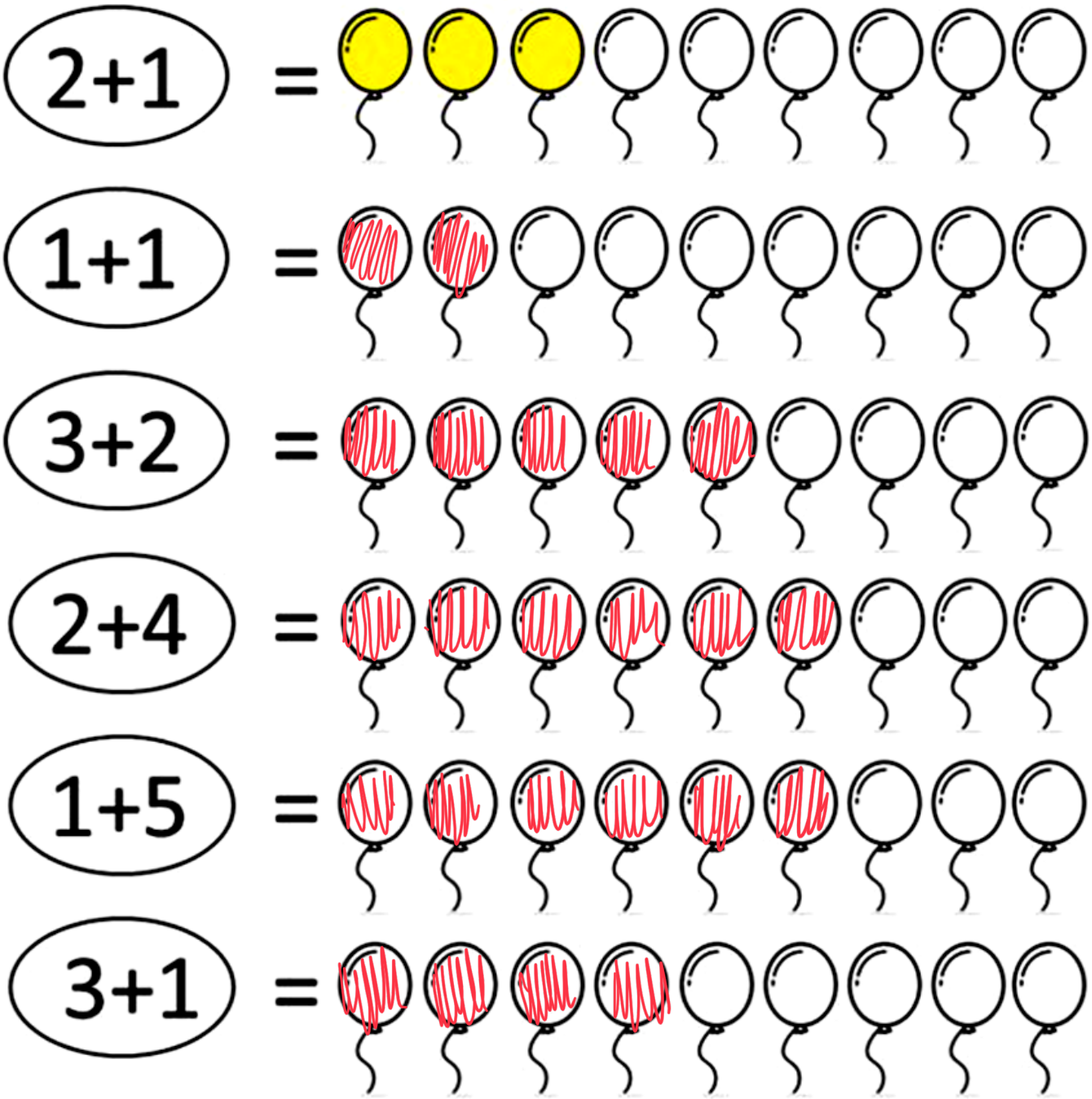

B) COMPLETE AS LACUNAS SEGUINDO A SEQUÊNCIA NUMÉRICA DE 10 A 49. (13 esc)

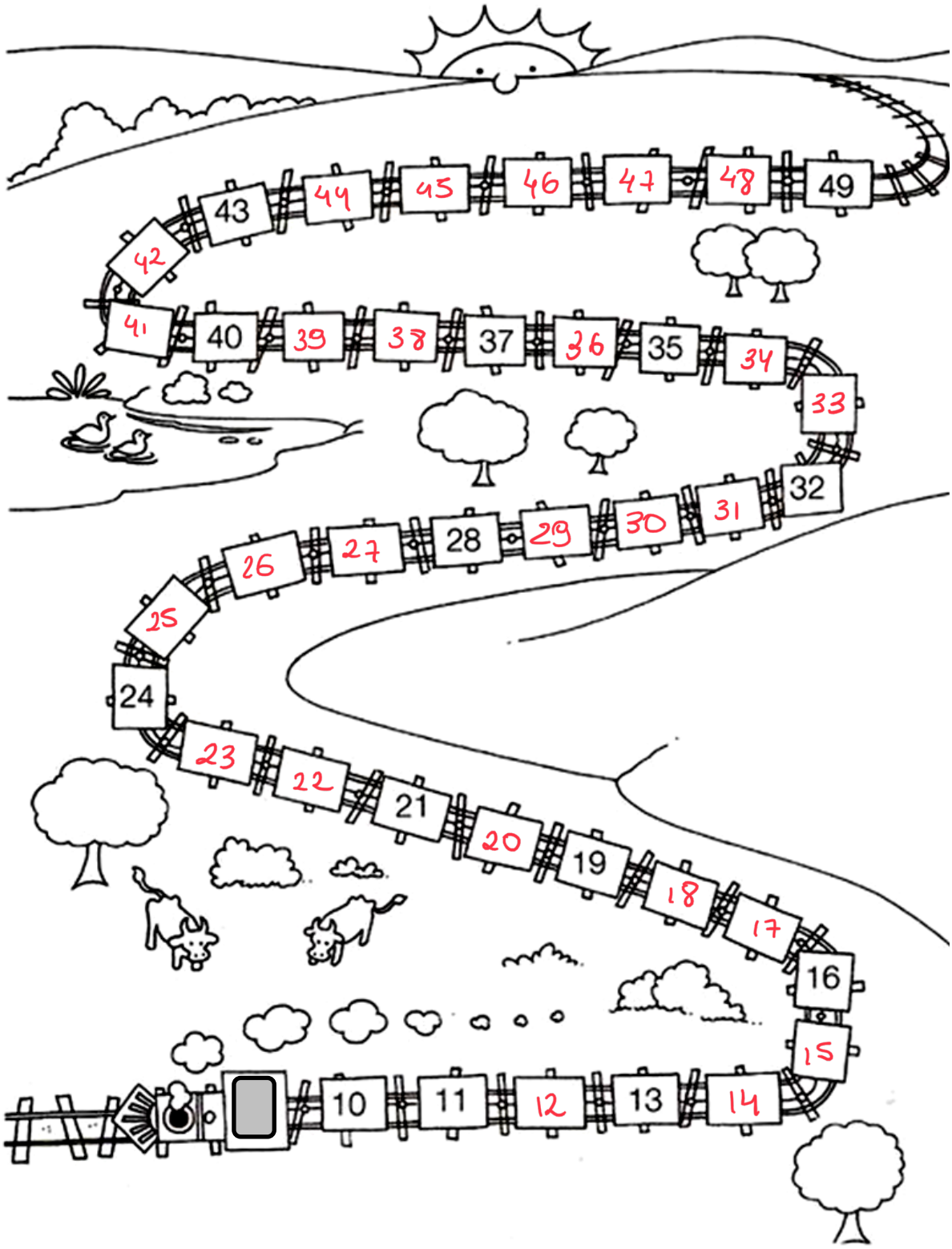

12ª QUESTÃO 14 escores [ ]

A) COMPLETE OS ESPAÇOS COM OS ANTECESSORES E SUCESSORES DOS NÚMEROS A SEGUIR (8 ESC)



B) LIGUE CADA SOMA AO RESULTADO CORRESPONDENTE (6 ESC)

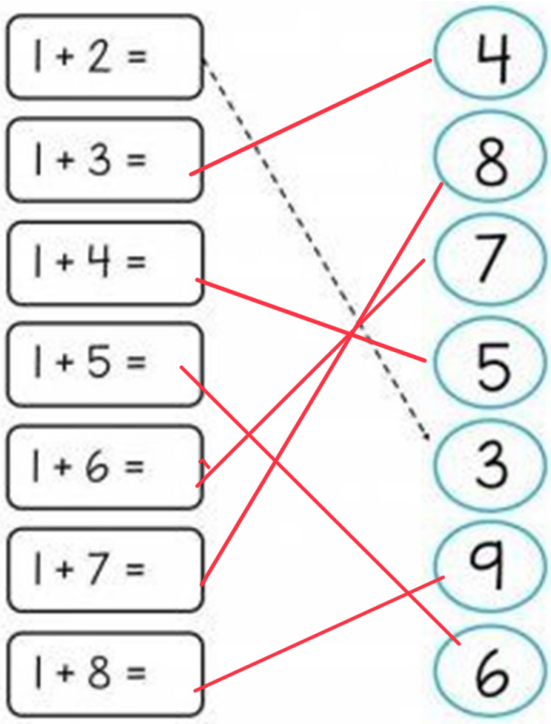

13ª QUESTÃO 24 escores [ ]

ANALISE A IMAGEM E RESPONDA AS PERGUNTAS A SEGUIR (6 ESC)



1 - OBSERVE A CENA E RESPONDA COM ATENÇÃO:

♡ QUANTAS CRIANÇAS BRINCANDO? 6

♡ QUANTAS SÃO MENINAS? 3

♡ QUANTOS BALÕES A MENINA ESTÁ SEGURANDO? 5

♡ QUANTAS SÃO MENINOS? 3

♡ QUANTAS BORBOLETAS? 1

♡ QUANTAS FLORES? 3

B) EXECUTE AS SOMAS EM CADA GRUPO DEPOIS COLOQUE O RESULTADO NO QUADRADO AO LADO. (4 esc)

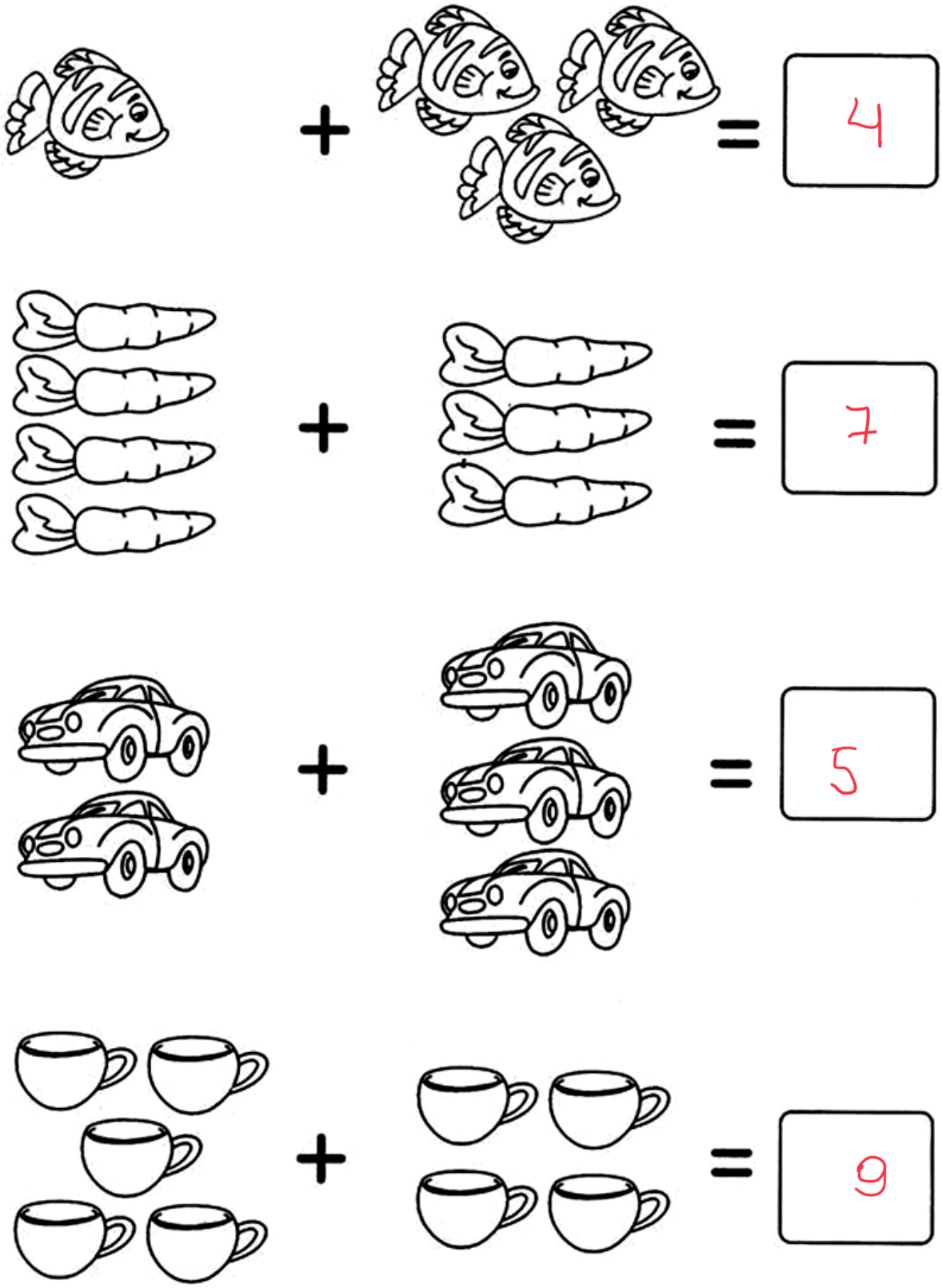

C) ESCREVA OS NÚMEROS QUE VÊM ANTES E OS QUE VÊM DEPOIS (14 ESC)

















14ª QUESTÃO 54 escores [ ]

A) EXECUTE AS OPERAÇÕES DE SOMA A SEGUIR (30 esc)

4 + 3 = 7	8 + 2 = 10	2 + 1 = 3	5 + 3 = 8	10 + 0 = 10
9 + 1 = 10	7 + 3 = 10	3 + 3 = 6	6 + 2 = 8	8 + 1 = 9
5 + 2 = 7	6 + 3 = 9	0 + 3 = 3	8 + 2 = 10	2 + 3 = 5
6 + 2 = 8	9 + 0 = 9	7 + 3 = 10	3 + 1 = 4	2 + 3 = 5
8 + 2 = 10	6 + 3 = 9	2 + 0 = 2	9 + 1 = 10	4 + 3 = 7
7 + 1 = 8	0 + 1 = 1	2 + 2 = 4	5 + 3 = 8	8 + 2 = 10

B) EXECUTE AS OPERAÇÕES DE SUBTRAÇÃO A SEGUIR: (24 esc)

2 - 1 = 1	9 - 9 = 0
5 - 4 = 1	6 - 1 = 5
6 - 5 = 1	3 - 1 = 2
9 - 8 = 1	8 - 2 = 6
6 - 2 = 4	7 - 4 = 3
5 - 3 = 2	3 - 2 = 1
9 - 1 = 8	7 - 2 = 5
8 - 1 = 7	4 - 2 = 2
6 - 3 = 3	5 - 1 = 4
9 - 6 = 3	7 - 6 = 1
9 - 5 = 4	9 - 2 = 7
4 - 1 = 3	7 - 1 = 6

15ª QUESTÃO 09 escores [ ]

A) Joana está experimentando uma roupa nova! Marque, nos dois quadrados a baixo, um **X** na mão direita de Joana. (4 esc)



B) LEIA E RESPONDA OS QUESTIONAMENTOS A SEGUIR (3 esc)

A CRIANÇA ABAIXO ESTÁ DE **FRENTE**. OBSERVE O LADO DIREITO E O ESQUERDO DELA.

LADO DIREITO

LADO ESQUERDO

AGORA, OBSERVE AS CRIANÇAS ABAIXO E MARQUE AS RESPOSTAS CERTAS.

JÚNIOR PISA NA BOLA COM O PÉ:
- ◯ ESQUERDO.
- ☒ DIREITO.

ALEX SEGURA A BOLA COM A MÃO:
- ☒ ESQUERDA.
- ◯ DIREITA.

ANA BATE A BOLA COM A MÃO:
- ◯ ESQUERDA.
- ☒ DIREITA.

C) ANALISE AS FIGURINHAS E FAÇA O QUE É PEDIDO. (2 esc)

A GALINHA COCOTA ESTÁ PROCURANDO O PINTINHO QUE SE PERDEU. VAMOS ENCONTRÁ-LO? FAÇA UMA + NO PINTINHO QUE ESTÁ MAIS LONGE DA GALINHA.



PINTE OS GATINHOS QUE ESTÃO PERTO DA MAMÃE GATA.



16ª QUESTÃO 03 escores [ ]

A) PINTE DE AMARELO, A MENOR VACA:



B) PINTE DE AZUL, A PIPA COM A LINHA MAIS CURTA:



C) PINTE DE VERDE, O COQUEIRO MAIS ALTO:

17ª QUESTÃO 15 escores [ ]

COMPLETE A SEQUÊNCIA NUMÉRICA, SEGUINDO A SEQUENCIA LÓGICA, ATÉ O NÚMERO 50. (15 ESC)



18ª QUESTÃO 17 escores [ ]

A) PREENCHA OS VAGÕES DO TRENZINHO SEGUINDO A SEQUENCIA LÓGICA DE SOMA (7 esc)



B) Resolva a cruzada na sequência, colocando no quadradinho vazio o resultado de cada operação. (10 esc)



19ª QUESTÃO 10 escores [ ]

LEIA E RESPONDA OS ENUNCIADOS ABAIXO: 4 esc

A) LIGUE OS OBJETOS A SUAS FORMAS CORRESPONDENTES.

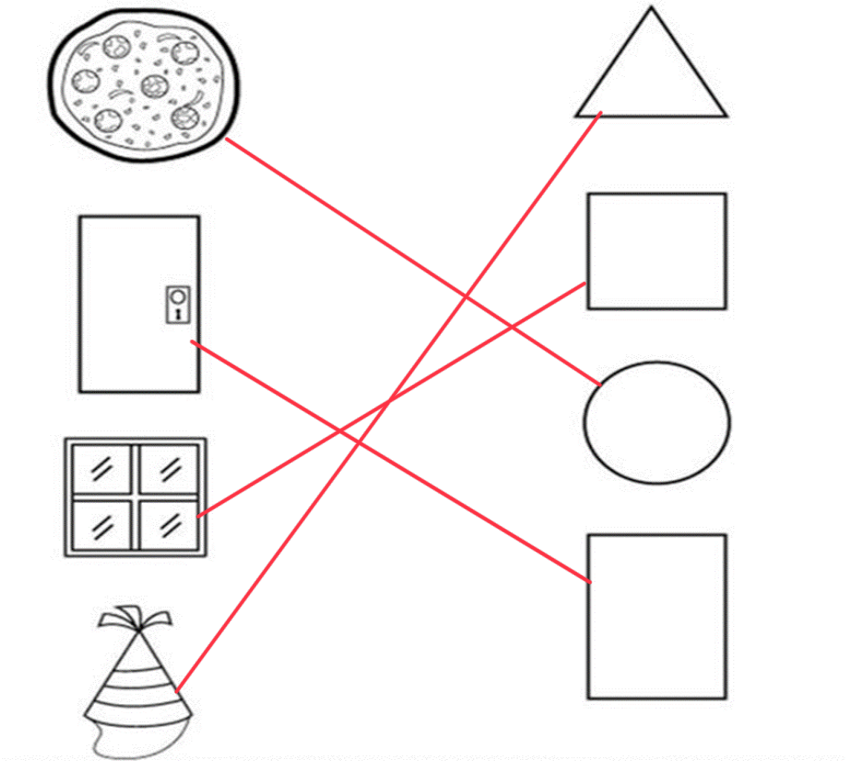

B) Pinte de azul a figura grande e de vermelho a figura pequena em cada linha. 6 esc



20ª QUESTÃO 5 escores [ ]

Faça a soma dos pontinhos nos quadrados e coloque o resultado no quadrado branco, conforme o exemplo. (5 esc)